ВИДЫ ПЕРЕКРЕСТКОВ И ИХ ПЕРЕСЕЧЕНИЕ

1-е задание. В каком порядке транспортные средства должны пересекать перекресток в этой ситуации? Впиши в облачко!

А

В

ВИДЫ ПЕРЕКРЕСТКОВ И ИХ ПЕРЕСЕЧЕНИЕ

1-е задание. В каком порядке транспортные средства должны пересекать перекресток в этой ситуации? Впиши в облачко!

C

D

ВИДЫ ПЕРЕКРЕСТКОВ И ИХ ПЕРЕСЕЧЕНИЕ

5-е задание. Водитель какого транспортного средства имеет преимущество движения?

A) водитель автомашины

B) водитель велосипеда

6-е задание. Водитель какого транспортного средства имеет преимущество движения в данной ситуации, если включен мигающий желтый сигнал светофора?

A) водитель велосипеда

B) водитель автомашины

7-е задание. В каком порядке эти транспортные средства должны пересечь перекресток?

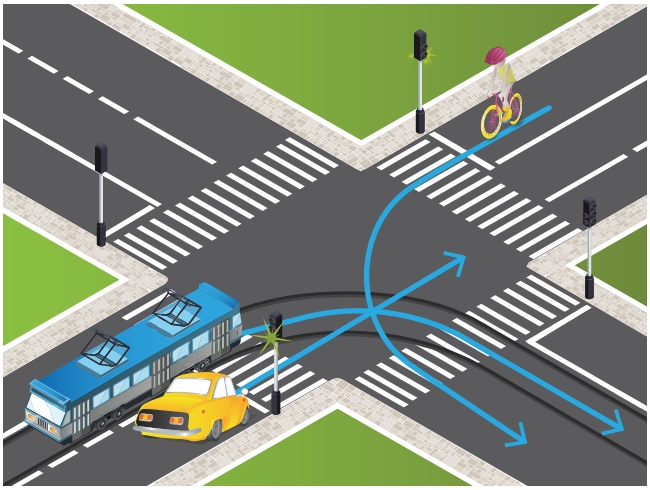

A) автомашина, трамвай, велосипед

B) трамвай, автомашина, велосипед

C) велосипед, автомашина, трамвай

ВИДЫ ПЕРЕКРЕСТКОВ И ИХ ПЕРЕСЕЧЕНИЕ

1-е задание. В каком порядке транспортные средства должны пересекать перекресток в этой ситуации? Впиши в облачко!

E

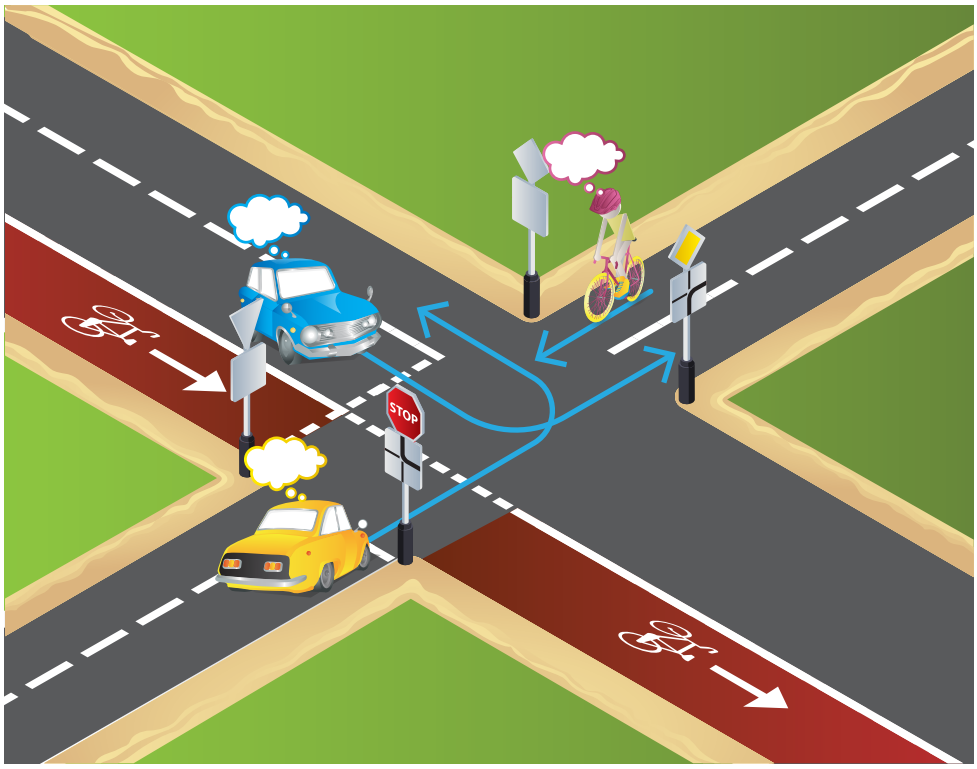

F

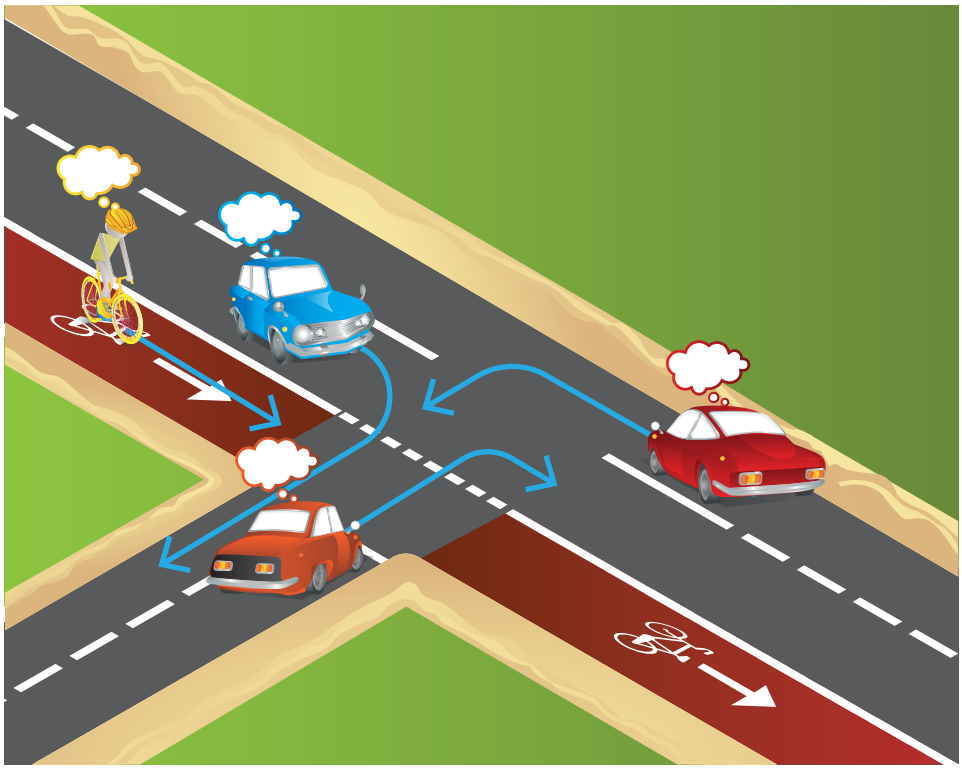

ВИДЫ ПЕРЕКРЕСТКОВ И ИХ ПЕРЕСЕЧЕНИЕ

2-е задание. Разрешен ли поворот направо согласно сигналу светофора?

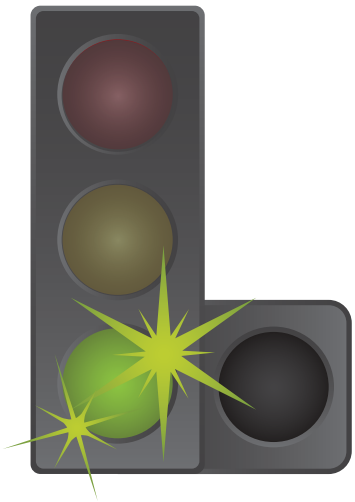

A) разрешен
B) запрещен

3-е задание. Водитель какого транспортного средства имеет преимущество движения в этой ситуации?

A) водитель велосипеда
B) водитель автомашины

4-е задание. На светофоре с изображением контура человека горит зеленый сигнал. Разрешается ли водителю велосипеда двигаться через улицу в этой ситуации?



A) разрешено
B) запрещено